Evaluation : l’heure

1. Emma a rendez-vous chez le dentiste dans une heure.
Elle met 35 min pour y aller en bus.
Sera-t-elle à temps chez le dentiste ? Explique ta réponse.

2. Hugo a prévu avec ses copains de faire de la trottinette. Sa mère lui demande de rentrer dans une heure.
Peut-il faire 90 min de trottinette ? Explique ta réponse.

3. Benjamin a un cours de tennis pendant 60 min et ensuite il veut courir 10 min. Il pense qu’il va avoir le temps de tout faire en une heure.
A-t-il raison ? Explique ta réponse.

4. Dessine les aiguilles pour indiquer l’heure demandée.

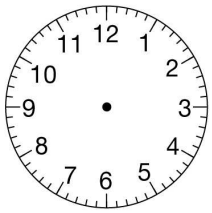

Il est 4h.

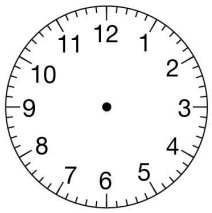

Il est 8h30.

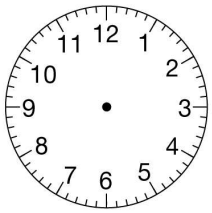

Il est midi.

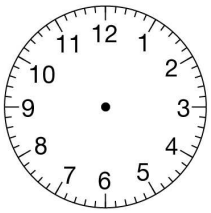

Il est 10h30

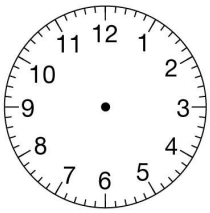

Il est 18h.

5. Quelle heure est-il ?











Prénom : …….. Date : ……